4º ANO

MATEMÁTICA

RUBRICA:

Nome: _____

Data: __/__/___

INFORMAÇÃO: _____

1 – Com a ajuda de uma máquina de calcular, efetua as seguintes operações e regista o resultado.

1 : 10 = ☐ 1 : 100 = ☐ 1 : 1000 = ☐

As frações decimais podem escrever-se, também, sob a forma de dízima, ou seja, de um numeral decimal. O nosso sistema de numeração é decimal como podes verificar na grelha:

x10 x10 x10 :10 :10 :10

1000	100	10	1	0,1	0,01	0,001
um milhar	uma centena	uma dezena	uma unidade	uma décima	uma centésima	uma milésima

2 – Representa por dízimas a parte pintada de cada figura. Observa o exemplo.

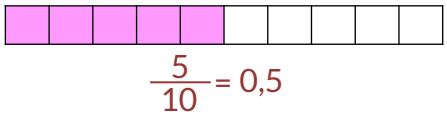

$\frac{5}{10} = 0,5$

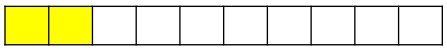

_____

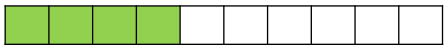

_____

_____

_____

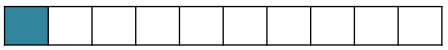

_____

3 – Completa.
Observa o exemplo.

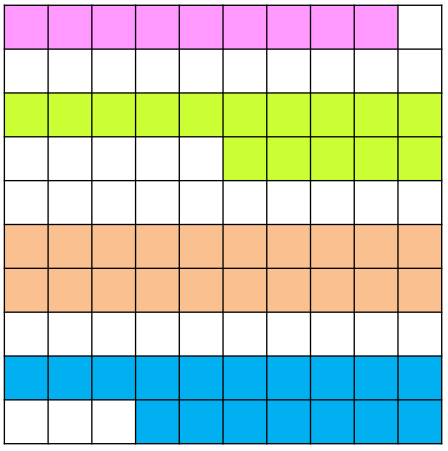

_____

$\frac{15}{100} = 0,15$

_____

_____